Colorie 37 doigts.

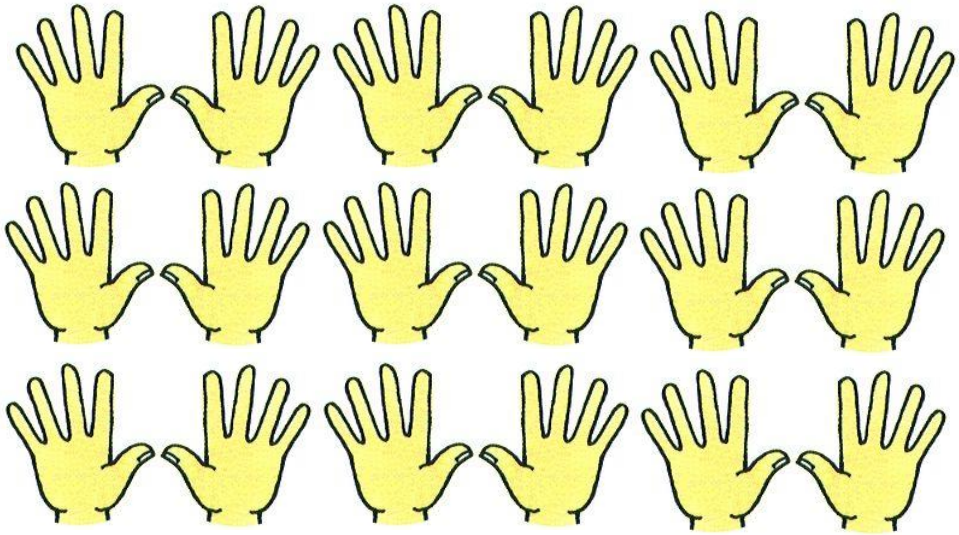

Écris 87 en lettres.

Colorie 59 doigts.

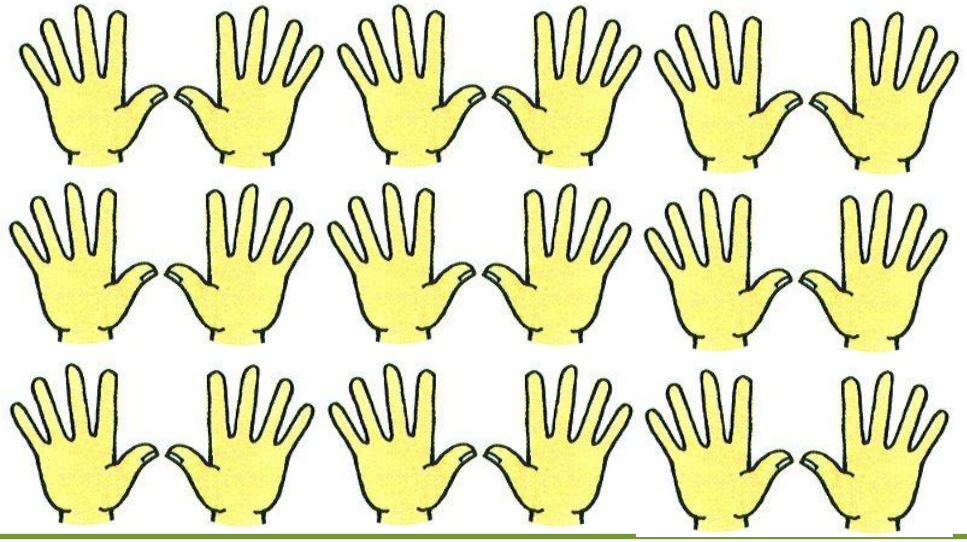

Écris 78 en lettres.

Compte de 10 à 35 le plus vite possible.

Écris 80 en lettres.

Compte de 2 en 2 à jusqu'à 30.

Écris 39 en lettres.

Compte de 35 à 51 le plus vite possible.

Écris le nombre correspondant:
quatre-vingt-dix-sept

Compte de 5 en 5 à jusqu'à 55.

Écris le nombre correspondant:
soixante-treize

Compte de 60 à 79 le plus vite possible.

Écris le nombre correspondant: soixante-neuf

Serre la main du camarade qui est à ta gauche.

Écris le nombre correspondant: quatre-vingt-neuf

Pose la main droite sur ta tête et écris le nombre soixante au tableau.

Qui suis-je?

Je suis le nombre 51 écrit de droite à gauche.

Donne ta carte défi au camarade assis à ta droite.

Compte toutes les chaussures de la classe et écris le nombre en lettres au tableau.

Combien de carrés se cachent dans cette figure?

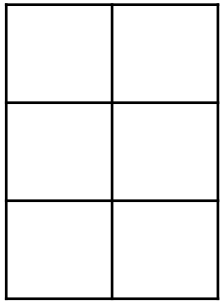

Je pense à un nombre. Je lui ajoute 2 et je prends le double. Je trouve 20.
Quel est ce nombre?

Calcule: 89 - 50

Calcule: 61 - 17

Colorie 21 doigts.

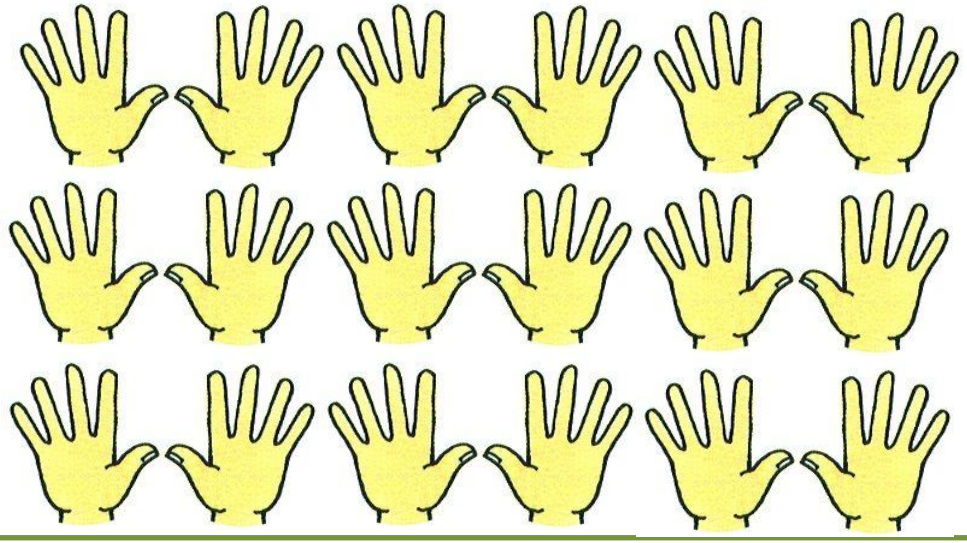

Écris 51 en lettres.

Colorie 44 doigts.

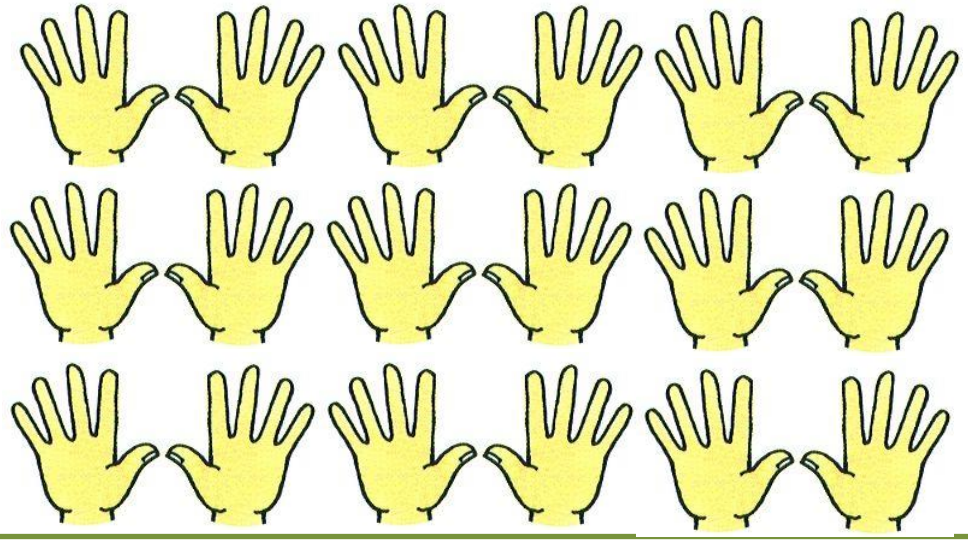

Écris 36 en lettres.

Quel est le double de

10 ?

Quel est le double de

25 ?

Quel est la moitié de

100 ?

Quel est le double de

50 ?

Quel est la moitié de

80 ?

Quel est le double de

12 ?

De quelle couleur est le billet le 5€?

De quelles couleurs est la pièce de 2€?

Quel est la moitié de

30 ?

Quel est le double de

31 ?

Complète:

8	18	..	..	..	..

Complète:

14	24	..	..	..	..

Qui suis-je?

Mon chiffre des unités est 5.
Mon chiffre des dizaines est le double de 2.

Qui suis-je?

Mon chiffre des unités est 3.
Mon chiffre des dizaines est le double de 4.

Complète:

31	33	..	..	..	..

Complète:

48	51	..	..	..	..

Qui suis-je?

Mon chiffre des dizaines est 1.
Mon chiffre des unités est la moitié de 8.

Qui suis-je?

Mon chiffre des unités est 9.
Mon chiffre des dizaines est la moitié de 2.

Combien y a-t-il de cartables?

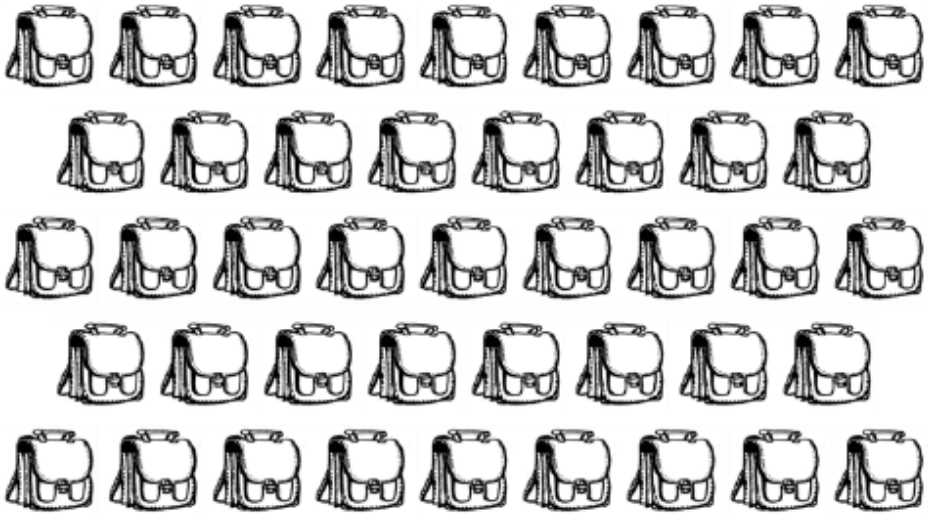

Combien y a-t-il de chapeaux?:



$60 + 6 = ?$

$70 + 3 = ?$

$75 + 6 = ?$

$96 + 4 = ?$

$60 + ? = 71$

$37 + ? = 51$

$45 + ? = 52$

$16 + ? = 32$

60 - ? = 50

68 - ? = 44

41 - ? = 37

95 - ? = 89

Calcule: 10 + 10 + 10 + 10 + 10 + 5 + 3

Calcule: 10 + 10 + 10 + 10 + 10 + 10 +10 + 9

Calcule: 10 + 10 + 10 + 10 + 10 + 4

Quel nombre vient après 100?

Dessine un triangle.

Trace un segment de 6cm:

Prend les pièces et les billets nécessaires:



Trace un segment de 9cm:

Dessine un triangle rectangle.

Complète:

Prend les pièces et les billets nécessaires:



Prend les pièces et les billets nécessaires:



Calcule: 63 + 19

Complète:

Prend les pièces et les billets nécessaires:



Prend les pièces et les billets nécessaires:



Calcule: 50 + 10 +10

Calcule: 63 + 20

Calcule: 20 + 20 + 40

Calcule: 71 + 20

Ecris 3 nombres pairs au tableau.

Ecris 3 nombres impairs au tableau.

Range dans l'ordre croissant:
63 - 45 - 16 - 74

Range dans l'ordre croissant:
28 - 41 - 50 - 68

Ecris 3 nombres pairs au tableau.

Ecris 3 nombres impairs au tableau.

Range dans l'ordre décroissant:
83 - 15 - 36 - 71

Range dans l'ordre décroissant:
858 - 93 - 52 - 57

Récite les nombres de 40 à 25 en reculant.

Trouve le nombre :

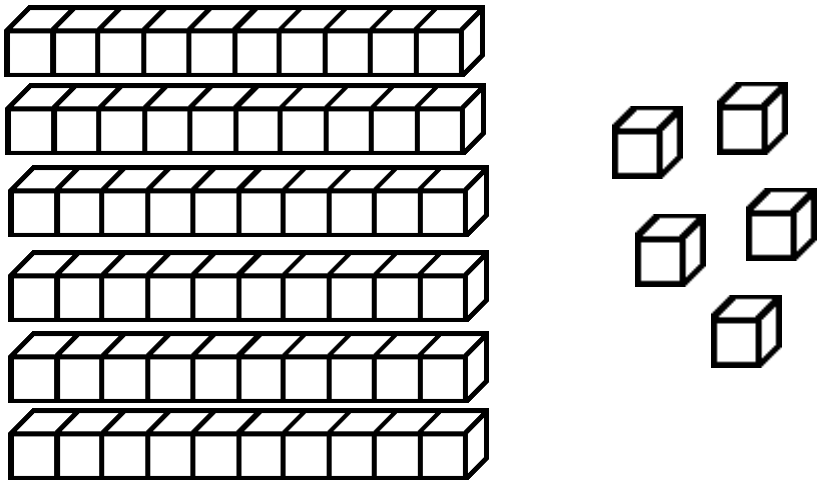

Quel nombre vient avant 100?

Quel nombre vient après 59?

Trouve le nombre :

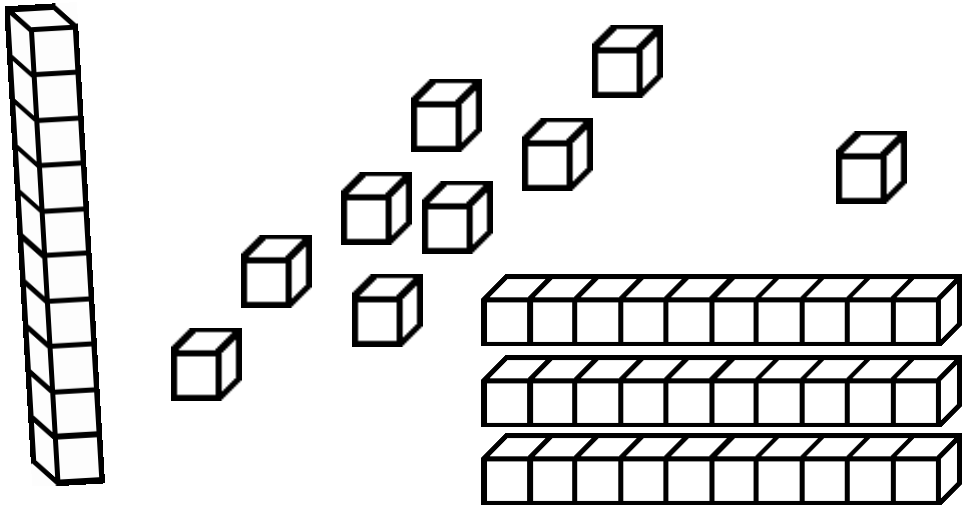

Trouve le nombre :

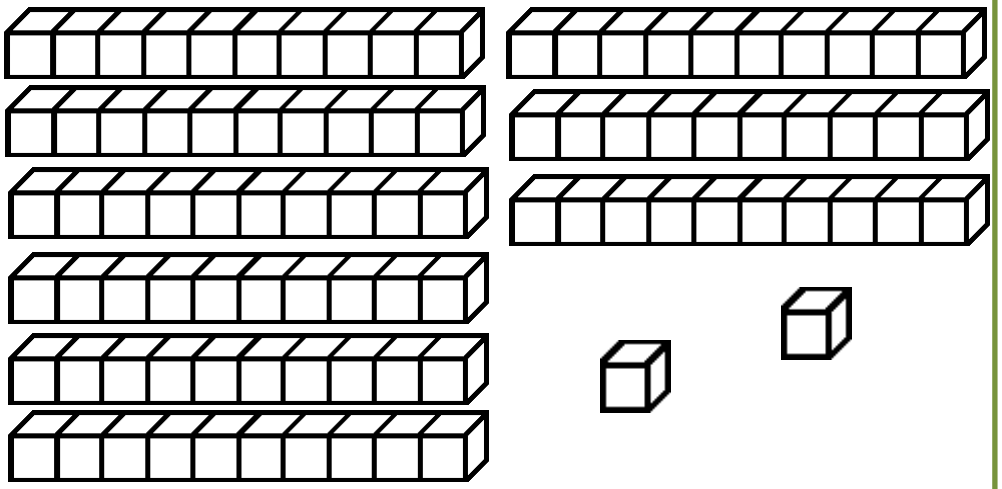

Trouve le nombre :

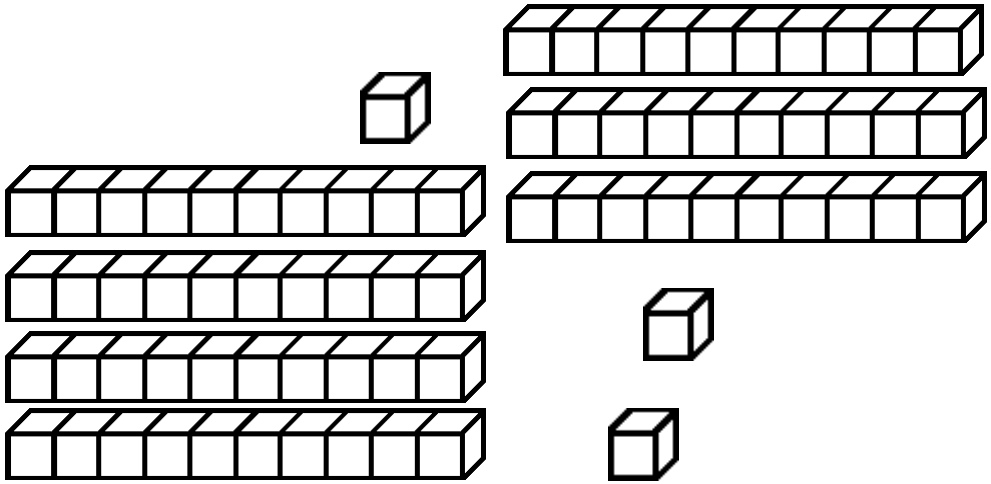

Trouve le nombre :

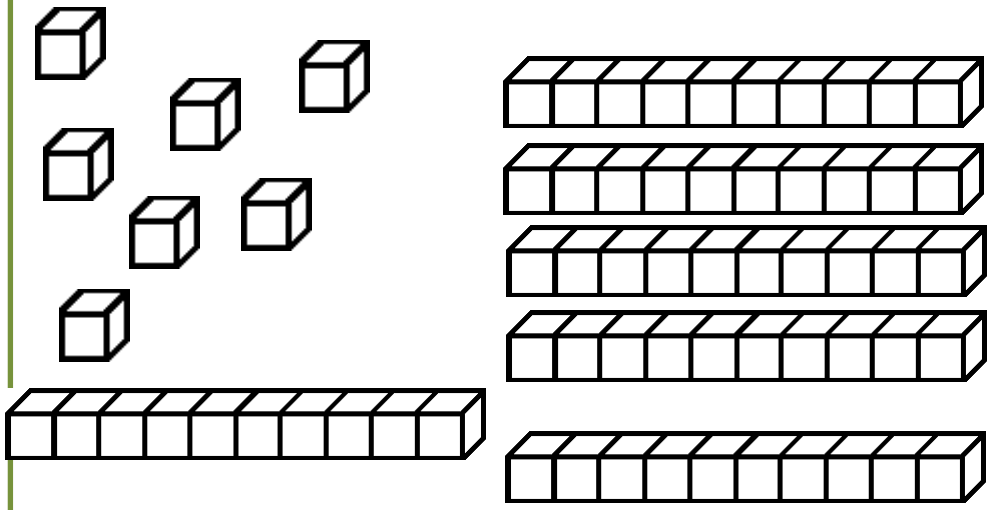

Trouve le nombre :

Trouve le nombre :

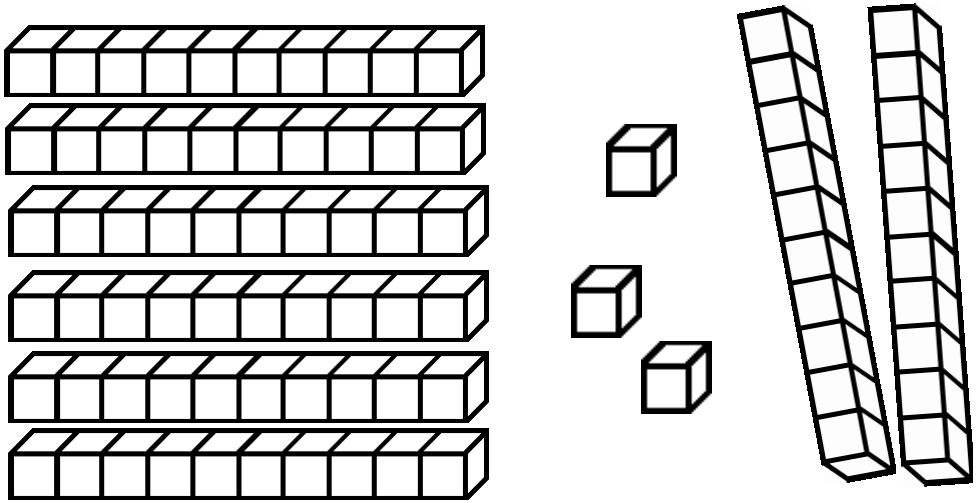

Trouve le nombre:

Trouve le nombre: